Unidad 1, Lección 2

Relacionemos la suma y la resta hasta 10

Pensemos en cómo se relacionan la suma y la resta.

Calentamiento

¿Qué sabes sobre el 10?

¿Qué sabes sobre el 10?

Actividad 2

Sumas de 10

1. Escribe todas las ecuaciones que se te ocurran para representar las torres de cubos.

A

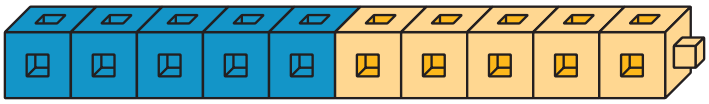

B

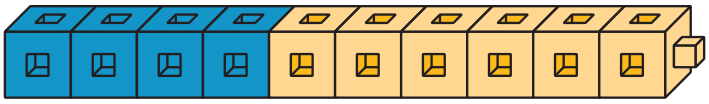

C

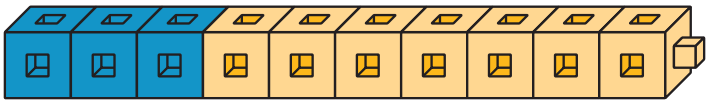

D

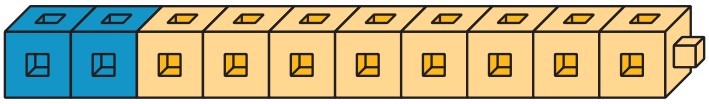

E

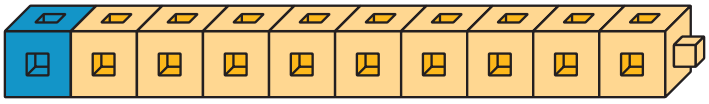

2. En cada caso, encuentra el número que hace que cada ecuación sea verdadera. Después, escribe la letra de la torre de cubos que representa la ecuación.

$3 + _____ = 10$ Letra: ___

$10 - 7 = _____$ Letra: ___

$10 - 5 = _____$ Letra: ___

$2 + _____ = 10$ Letra: ___

$10 - 1 = _____$ Letra: ___

$10 - 2 = _____$ Letra: ___

$_____ + 6 = 10$ Letra: ___

$_____ + 9 = 10$ Letra: ___

$5 + _____ = 10$ Letra: ___

$10 - _____ = 4$ Letra: ___