Fija tu compás a 5 cm y dibuja un arco:

desde el extremo izquierdo del segmento de 4 cm

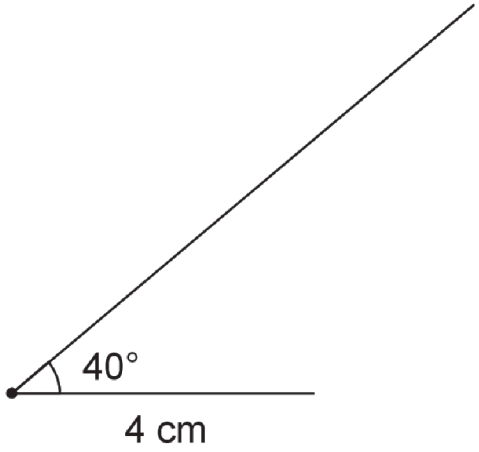

desde el extremo derecho del segmento de 4 cm

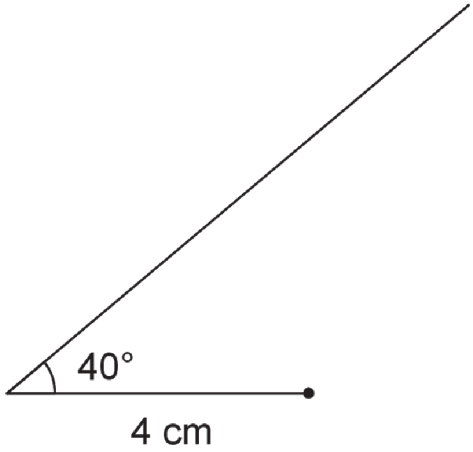

Fija tu compás a 4 cm y dibuja un arco:

desde el extremo izquierdo del segmento de 5 cm

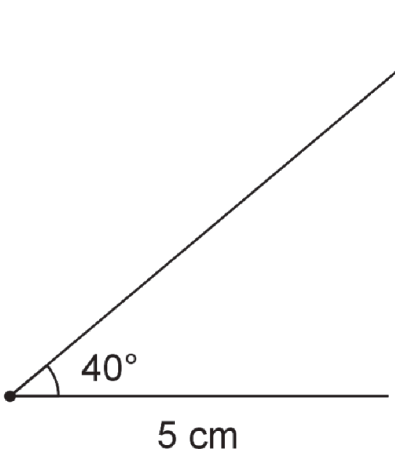

desde el extremo derecho del segmento de 5 cm

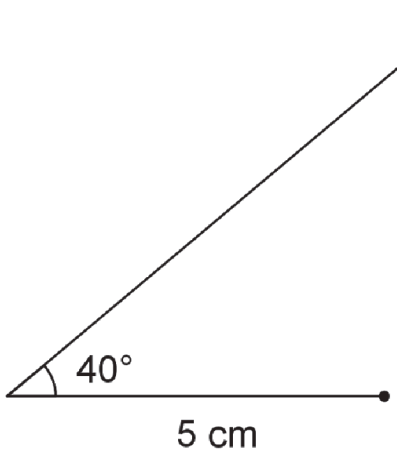

Cuando termines de dibujar y de marcar cada triángulo, considera las siguientes preguntas:

- ¿Cuáles dos configuraciones hicieron el mismo triángulo?
- ¿Con qué configuración se puede hacer más de un triángulo?

CC BY NC Illustrative Mathematics, based on IM 6–8 Math, CC BY Open Up Resources.