Unidad 2, Lección 23

Comparemos números

Descifremos cuál número es más y cuál es menos.

Calentamiento

Actuémoslo: Repartamos papel

9 niños reciben papel azul.
5 niños reciben papel rojo.
¿Menos niños recibieron papel rojo o papel azul?

Actividad 1

¿Cuál número es más?

Marca el número que es más.

1.



2.

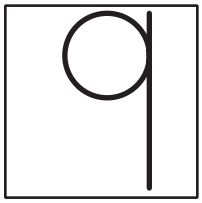

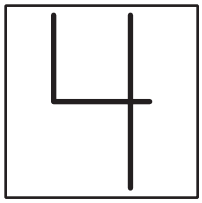

 CC BY NC 2024
Illustrative Mathematics®

Actividad 2

¿Cuál número es menos?

Escribe los números que obtuvieron.
Marca el número que es menos.

_____	_____
_____	_____
_____	_____
_____	_____
_____	_____
_____	_____
_____	_____
_____	_____
_____	_____

Escribe los números que obtuvieron.
Marca el número que es menos.

 CC BY NC 2024
Illustrative Mathematics®

Actividad 3

Centros: Momento de escoger

Escoge un centro.

Menos, lo mismo, más

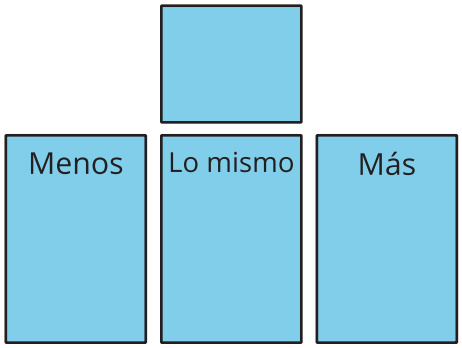

Mi mate-libreta



Carrera con números



CC BY NC 2024
Illustrative Mathematics®

Resumen de la sección D

Podemos comparar números.

5 8

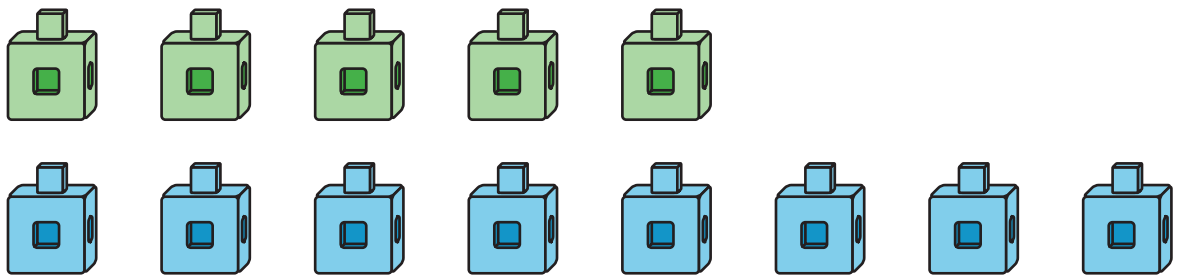



1, 2, 3, 4, **5**, 6, 7, **8**, 9, 10

5 es menos que 8.

8 es más que 5.