Rectángulos y cuadrados

Descubramos qué hace que una figura sea un rectángulo o un cuadrado.

Calentamiento

Conversación numérica: Algunas sumas

Encuentra mentalmente el valor de cada expresión.

- $57 + 10$
- $57 + 11$
- $57 + 21$
- $57 + 42$

Actividad 1

Rectángulos y cuadrados

1. Estos son rectángulos.

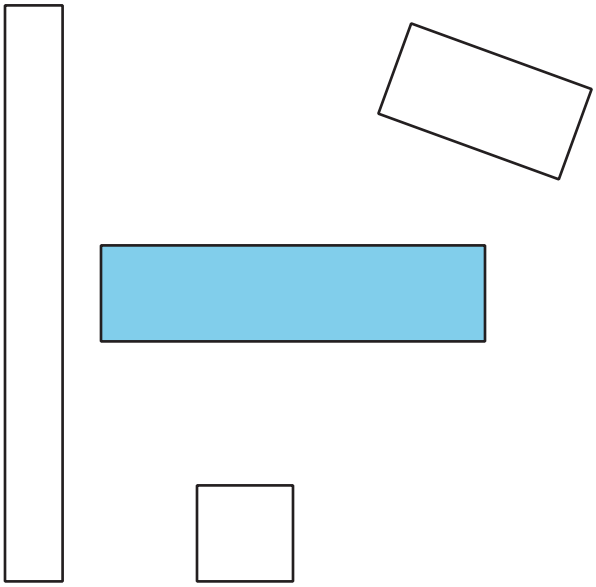

¿En qué se parecen todos estos rectángulos?

2. Estos *no son* rectángulos.

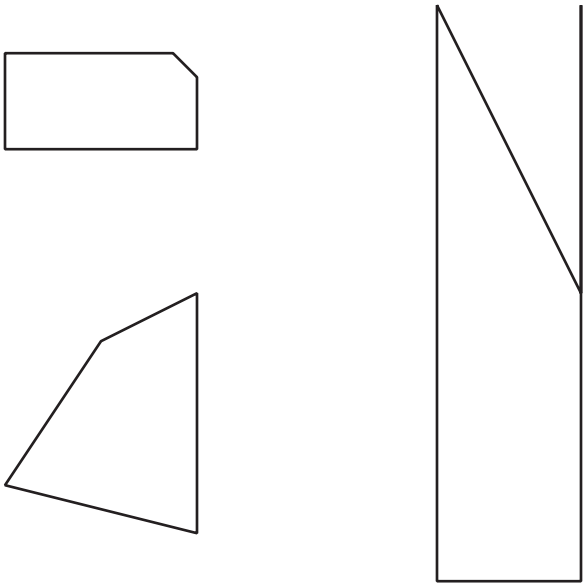

¿Qué hace que estas figuras sean diferentes de los rectángulos?

3. Estos son cuadrados.

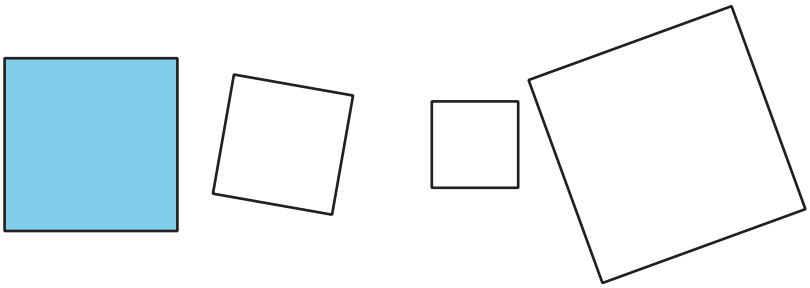

¿En qué se parecen todos estos cuadrados?

CC BY NC 2024
Illustrative Mathematics®

4. Estos *no son* cuadrados.

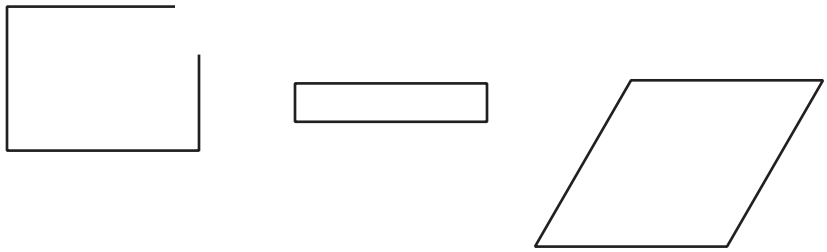

¿Qué hace que estas figuras sean diferentes de los cuadrados?

Actividad 2

Dibujemos rectángulos y cuadrados

1. Dibuja 5 rectángulos.



¿Cómo sabes que estos son rectángulos?

2. Dibuja 3 figuras que *no* sean rectángulos.



¿Cómo sabes que *no* son rectángulos?

CC BY NC 2024
Illustrative Mathematics®

3. Dibuja 5 cuadrados.



¿Cómo sabes que estos son cuadrados?

CC BY NC 2024
Illustrative Mathematics®

4. Dibuja 3 figuras que *no* sean cuadrados.

¿Cómo sabes que *no* son cuadrados?

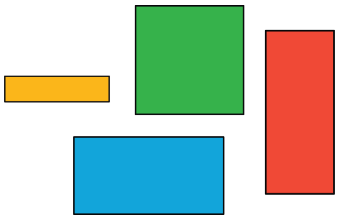

CC BY NC 2024
Illustrative Mathematics®