Unidad 3, Lección 15

Resolvamos problemas-historia con tres números

Resolvamos problemas-historia con 3 números.

 CC BY NC 2024
Illustrative Mathematics®

Calentamiento

Cuántos ves: Tableros de 10

¿Cuántos ves?
¿Cómo lo sabes?, ¿qué ves?

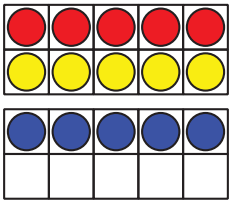

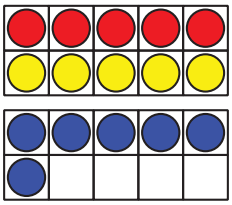

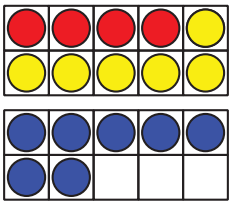

Actividad 1

Los pájaros de Louis Agassiz Fuertes

7 pájaros azules vuelan en el cielo.
8 pájaros marrones están parados en un árbol.
3 pájaros bebé están en un nido.
¿Cuántos pájaros hay en total?
Muestra cómo pensaste. Usa objetos, dibujos, números o palabras.

Actividad 2

Las tarjetas de pájaros de Fuertes

Muestra cómo pensaste. Usa dibujos, números o palabras.

1. Noah tiene 3 tarjetas de pájaros.
   Clare tiene 4 tarjetas.
   Jada tiene 7 tarjetas.
   ¿Cuántas tarjetas tienen entre todos?

2. Jada usa sus tarjetas para nombrar los pájaros que ve.
   Ve 4 orioles.
   Ve 2 jilgueros.
   Ve 8 gorriones.
   ¿Cuántos pájaros ve Jada?

 CC BY NC 2024
Illustrative Mathematics®

3. Escribe tu propio problema.
   Vemos algunos pájaros.

   Vemos 9 _____.

   Vemos 8 _____.

   Vemos 1 _____.

   ¿Cuántos pájaros vemos en total?

 CC BY NC 2024
Illustrative Mathematics®