Contemos hacia adelante o hacia atrás para restar

Encontremos la diferencia entre números.

Calentamiento

Conversación numérica: Decenas y centenas

Encuentra mentalmente el valor de cada expresión.

- $120 + 20$
- $120 + 200$
- $124 + 30$
- $124 + 300$

 CC BY NC 2024 Illustrative Mathematics®

Actividad 1

Saltemos hacia atrás, atrás, atrás

Jada y Andre encuentran el valor de $375 - 24$.

El trabajo de Jada

$375 - 24 = 351$

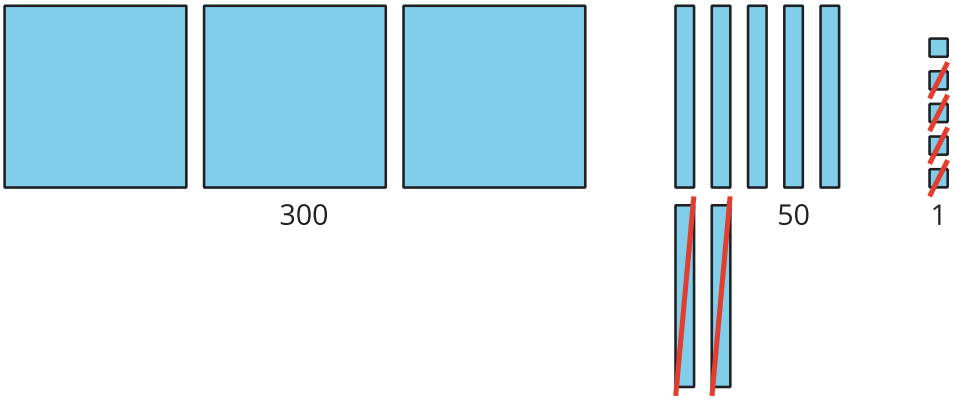

El trabajo de Andre

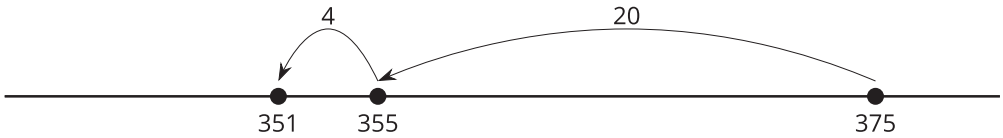

$375 - 20 = 355$
$355 - 4 = 351$
$375 - 24 = 351$

¿Qué observas? ¿Qué te preguntas?

1. Encuentra el valor de $189 - 73$. Usa el método de Andre. Muestra cómo pensaste. Usa dibujos, números o palabras.

   Si te ayuda, usa una recta numérica.

2. Encuentra el valor de $647 - 46$. Muestra cómo pensaste. Usa dibujos, números o palabras.

   Si te ayuda, usa una recta numérica.

Actividad 2

¿Quién regó pintura?

Oh, no! Diego regó pintura en su hoja. Él no puede ver todos los números.

+ 540 = 1,000

En cada caso, encuentra el número que hace que la ecuación sea verdadera.

1. 250 + = 1,000
2. 600 – 440 =
3. 680 + 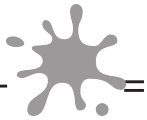 = 900
4. + 590 = 1,000
5. 900 – 370 =

1. _____
2. _____
3. _____
4. _____
5. _____