Unidad 8, Lección 19

Encontremos el número con el que se forma 10

Sumemos para formar 10.

 CC BY NC 2024
Illustrative Mathematics®

Calentamiento

Cuántos ves: Formemos 10

¿Cuántos ves?

¿Cómo lo sabes?, ¿qué ves?

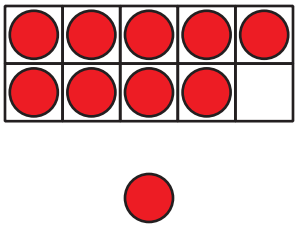

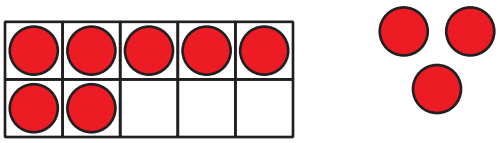

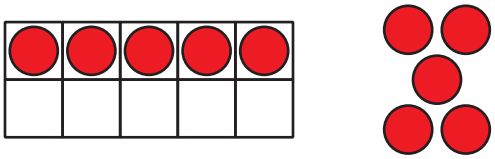

 CC BY NC 2024
Illustrative Mathematics®

Actividad 1

Coloreemos el número con el que se forma 10

- Compañero A: colorea 1 número.
- Compañero B: colorea otro número para formar 10. Usa el mismo color.
- Háganlo por turnos. Cambien de color.

10	5	3	2
7	1	9	8
4	8	9	4
6	2	3	0
1	7	5	6

Forma 10.
Completa la ecuación.

$$10 = _____ + _____$$

 CC BY NC 2024 Illustrative Mathematics®

Actividad 2

Sumemos para formar 10

Forma 10.

- $10 = 9 + _____$
- $10 = 3 + _____$
- $10 = 5 + _____$
- $10 = 4 + _____$
- $10 = 8 + _____$
- $10 = 7 + _____$

Actividad 3

Centros: Momento de escoger

Escoge un centro.

Revuelve y saca

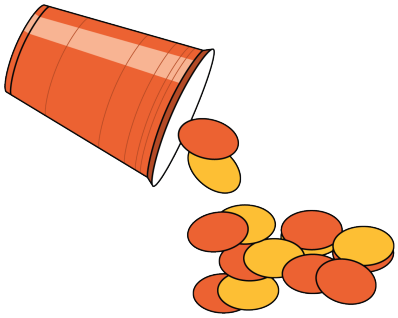

Carrera con números



Agarra y cuenta



¿Qué hay a mis espaldas?

Fichas geométricas

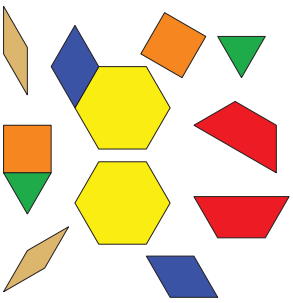

 CC BY NC 2024
Illustrative Mathematics®