Unidad 5, Lección 11

Demos sentido a la suma de números decimales

Sumemos números decimales.

Calentamiento

Cuántos ves: Diagramas

¿Cuántos ves? ¿Cómo lo sabes?, ¿qué ves?

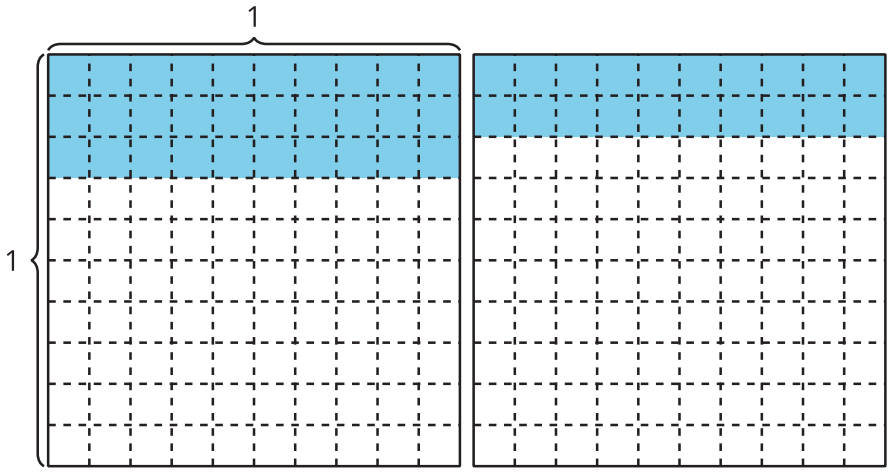

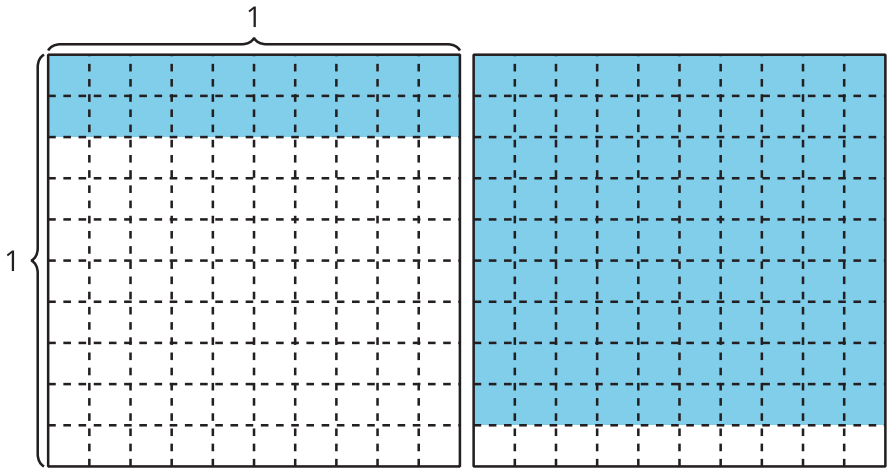

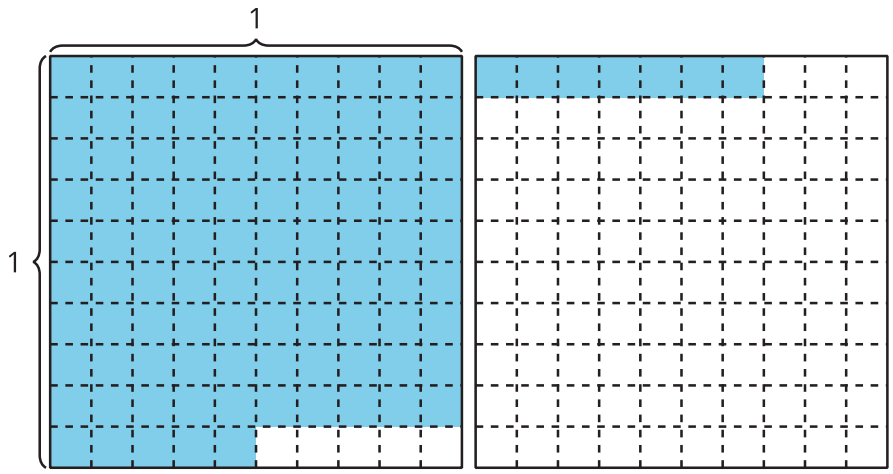
1
1

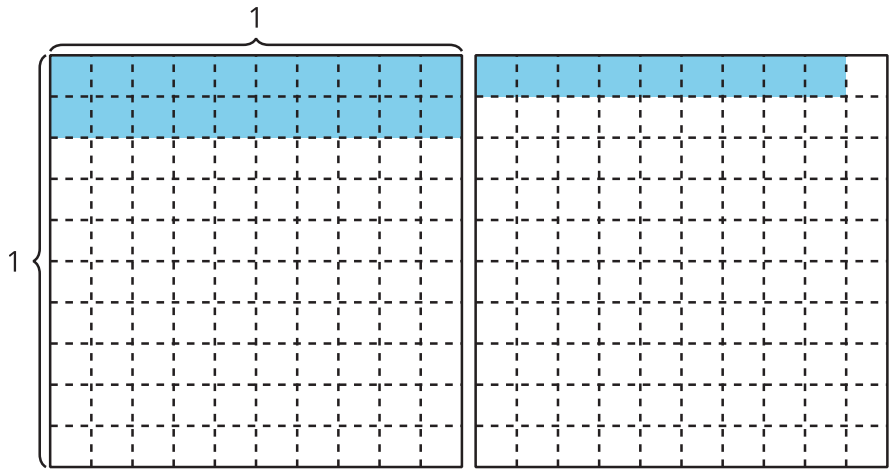
1
1

Actividad 1

La suma

1. Encuentra el valor de la expresión. Muestra cómo pensaste. Organiza tu trabajo para que los demás puedan entenderlo. Si te ayuda, usa diagramas.

   $2.26 + 1.87$

2. ¿Qué preguntas tienes sobre la suma de números decimales?

Actividad 2

Conozcamos “Números objetivo: Suma décimas o centésimas”

Instrucciones:

1. Juega una partida de “Números objetivo”.
    - Deja aparte las tarjetas que muestran el 0 y el 10.
    - Cuando sea tu turno.
        - Empieza en el 0. Toma una tarjeta de números. Decide si le sumas ese número de décimas o de centésimas al número inicial.
        - Escribe una ecuación que represente la suma.
    - La suma es el número con el que se empieza en la siguiente ecuación.
    - Juega por turnos 6 rondas con tu compañero.
    - Gana el compañero que tenga la suma más cercana a 1, sin pasarse de 1.

2. Describe una jugada que podrías haber hecho de otra forma para cambiar el resultado del juego.