Unidad 3, Lección 8

# ¿Qué es una pulgada?

Midamos en pulgadas.

## Calentamiento

### Observa y pregúntate: Pulgadas y centímetros

¿Qué observas? ¿Qué te preguntas?

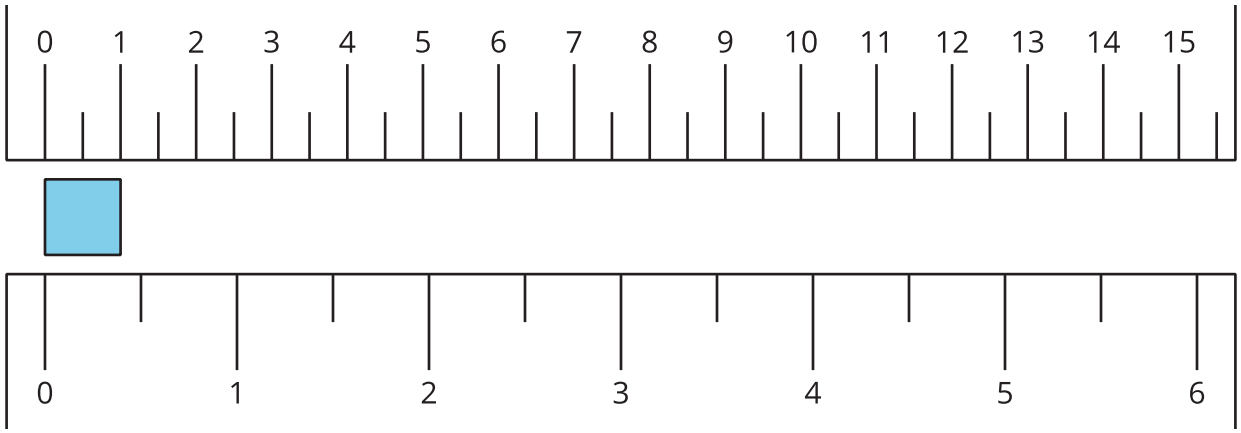

Actividad 1

# ¿Qué es una pulgada?

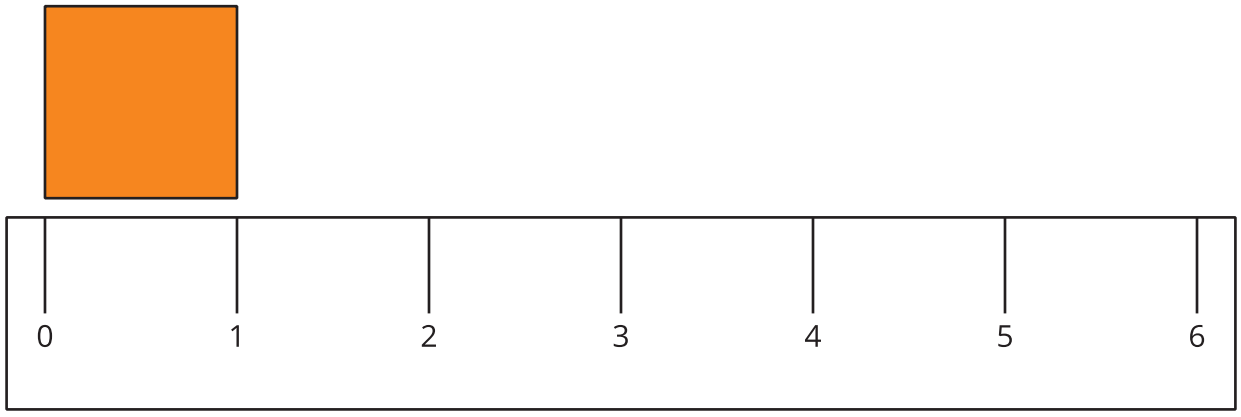

1. Encuentra 2 objetos que midan aproximadamente una pulgada de largo.

   a. _____

   b. _____

2. Mide la longitud de cada objeto.

| objeto a medir | longitud en pulgadas |
|---|---|
| marcador | |
| lápiz de color | |
| 11 cubos encajables | |
| un libro | |
| objetos que escojas: | |
| | |
| | |

Actividad 2

# Midamos los lados de varias figuras

1. Este es un rectángulo.



Estima la longitud del lado largo del rectángulo. Usa pulgadas.

Estimación: _____ in

Mide el lado largo del rectángulo. Usa pulgadas.

Longitud real: _____ in

2. Este es un cuadrado.



Estima la longitud de 1 lado del cuadrado. Usa pulgadas.

Estimación: _____ in

Mide 1 lado del cuadrado. Usa pulgadas.

Longitud real: _____ in

3. Este es un triángulo.

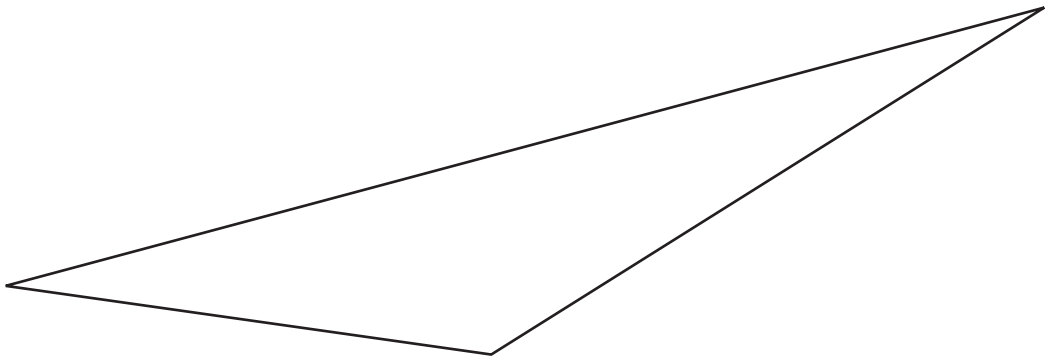

Estima la longitud del lado más largo del triángulo. Usa pulgadas.

Estimación: _____ in

Mide el lado más largo del triángulo. Usa pulgadas.

Longitud real: _____ in