Interpretemos gráficas de barras

Respondamos preguntas sobre datos de **gráficas de barras**.

Calentamiento

Observa y pregúntate: Mascotas favoritas

¿Qué observas? ¿Qué te preguntas?

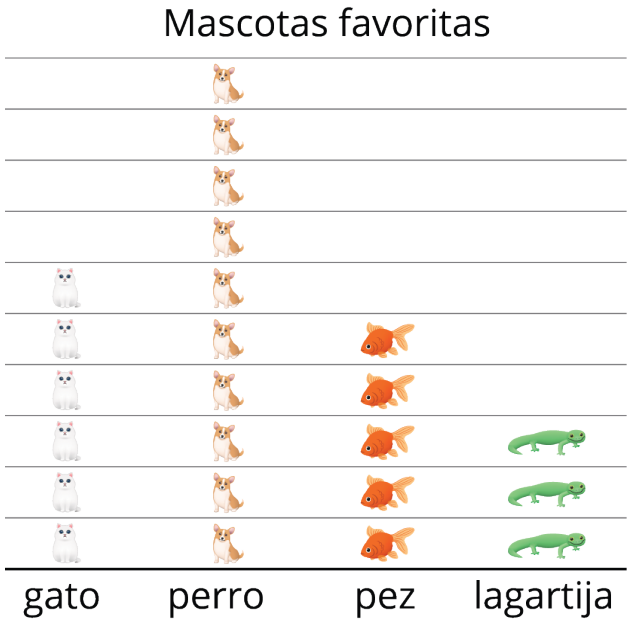

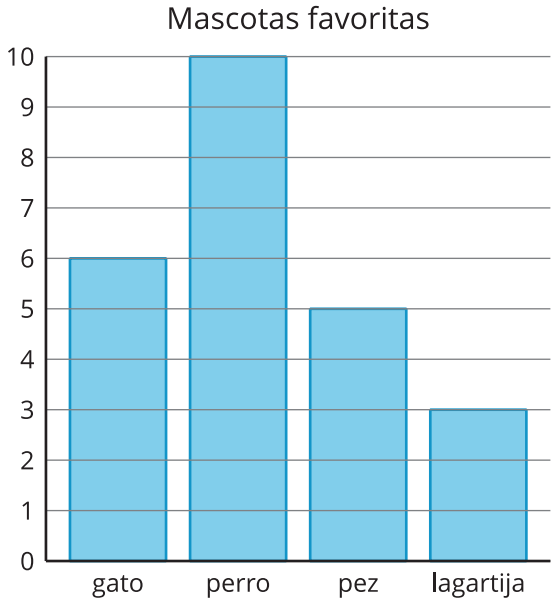

Actividad 1

Opciones para una excursión



A varios grupos de estudiantes de diferentes cursos les preguntaron: "¿A dónde te gustaría ir de excursión?". Sus respuestas se muestran en estas gráficas de barras:

Escribe todas las afirmaciones que puedas acerca de cada gráfica de barras.

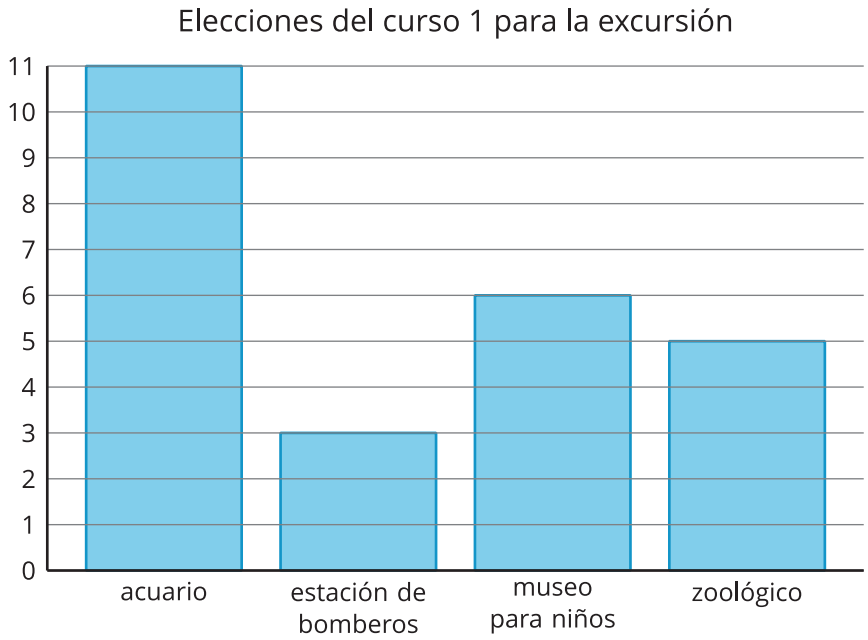

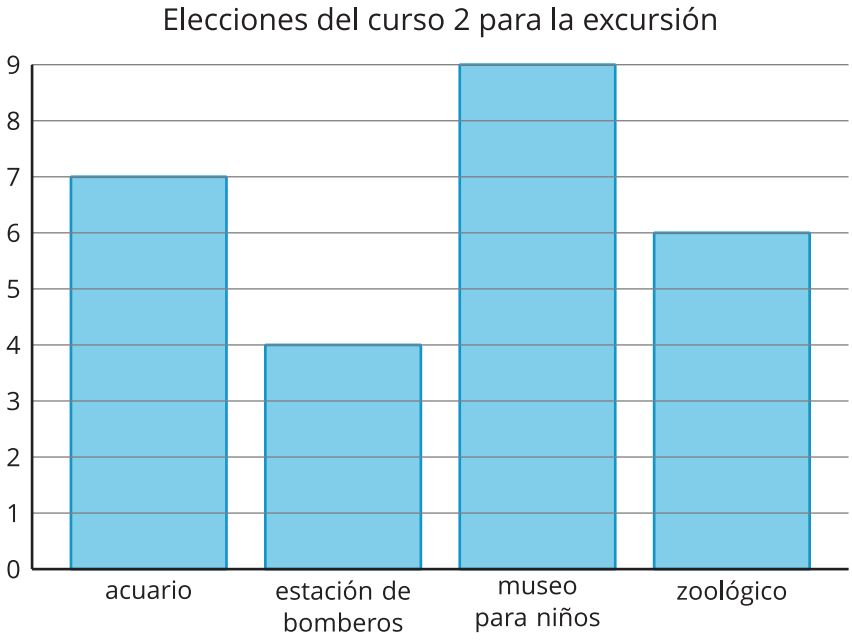
Elecciones del curso 2 para la excursión
9
8
7
6
5
4
3
2
1
0
acuario
estación de bomberos
museo para niños
zoológico

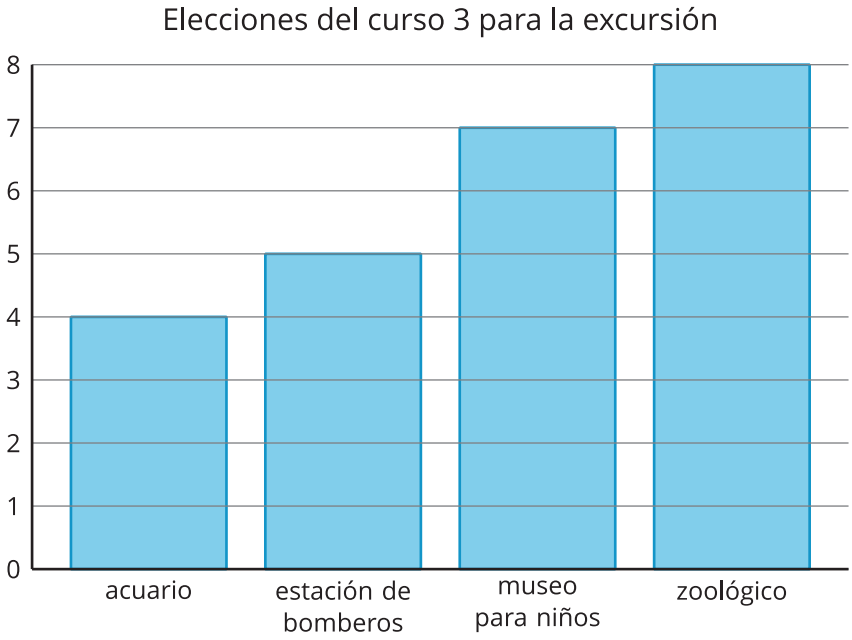
Elecciones del curso 3 para la excursión
8
7
6
5
4
3
2
1
0
acuario
estación de bomberos
museo para niños
zoológico

Actividad 2

Nuestras estaciones favoritas

A un grupo de estudiantes le preguntaron: "¿Cuál es tu estación favorita?". Sus respuestas se muestran en la gráfica de barras.

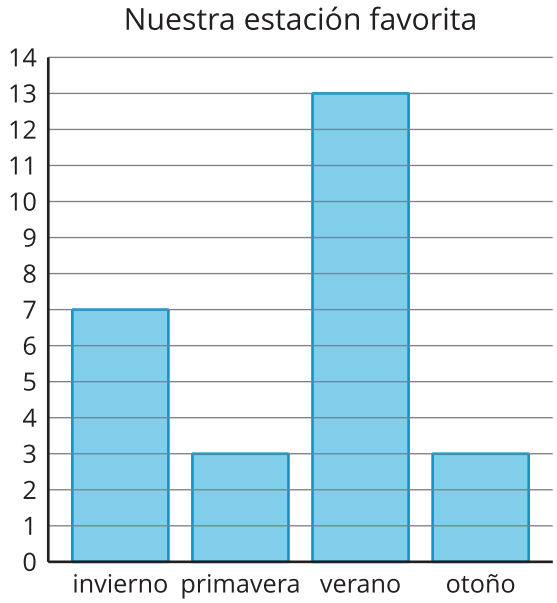

1. ¿Cuántos estudiantes votaron por verano?

2. ¿Cuál es el número total de estudiantes que votó por otoño o primavera?

3. ¿Cuáles 2 estaciones tienen juntas un total de 10 votos?

4. ¿Cuántos estudiantes votaron?