Card Sort: At the Beach, Spanish, Spanish
A

Lin encuentra 28 conchas más que Diego.
Diego encuentra 32 conchas.
¿Cuántas conchas encuentra Lin?

Card Sort: At the Beach, Spanish, Spanish
B

Lin cuenta 28 botes.
Diego cuenta 32 botes.
¿Cuántos botes más cuenta él?

Card Sort: At the Beach, Spanish, Spanish
C

Lin observa 32 estrellas de mar.
Diego observa 28 estrellas de mar menos que Lin.
¿Cuántas estrellas de mar observa él?

Card Sort: At the Beach, Spanish, Spanish
D

Lin encuentra 40 cangrejos menos que Diego.
Diego encuentra 57 cangrejos.
¿Cuántos cangrejos encuentra Lin?

Card Sort: At the Beach, Spanish, Spanish
E

Lin cuenta 57 sillas de playa.
Lin cuenta 40 personas más que sillas.
¿Cuántas personas cuenta?

Card Sort: At the Beach, Spanish, Spanish
F

Diego ve 40 gaviotas.
Lin ve 57 gaviotas.
¿Cuántas gaviotas menos ve Diego?

CC BY NC 2024 Illustrative Mathematics®

Card Sort: At the Beach, Spanish, Spanish

G

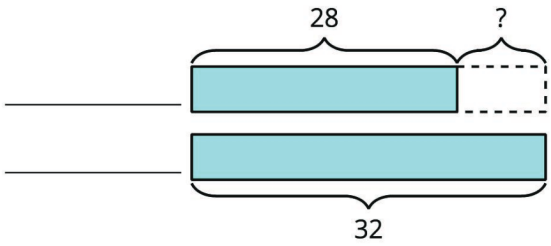

Card Sort: At the Beach, Spanish, Spanish

H

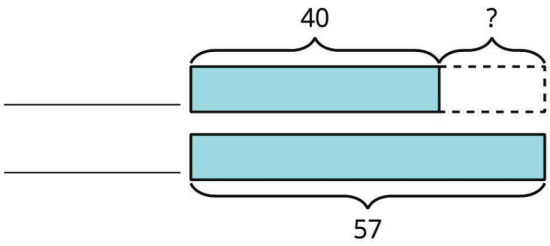

Card Sort: At the Beach, Spanish, Spanish

I

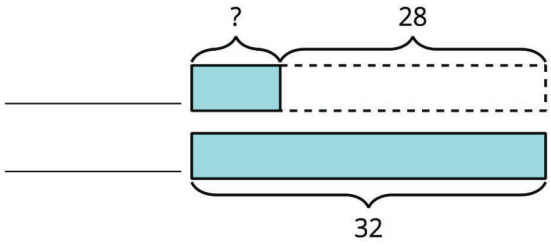

Card Sort: At the Beach, Spanish, Spanish

J

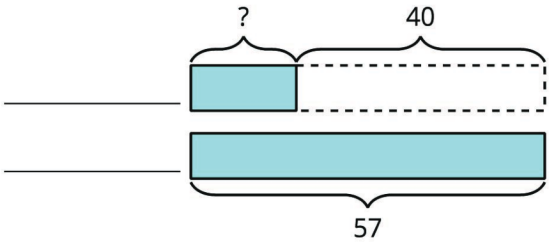

Card Sort: At the Beach, Spanish, Spanish

K

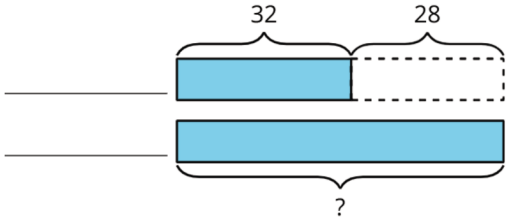

Card Sort: At the Beach, Spanish, Spanish

L

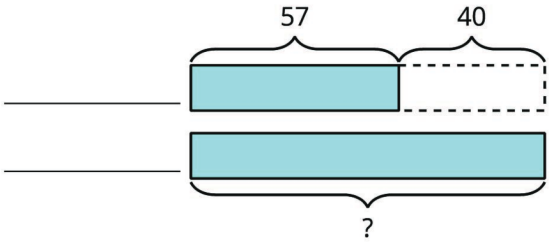

Card Sort: At the Beach, Spanish, Spanish
M

$32 - 28 = ?$

Card Sort: At the Beach, Spanish, Spanish
N

$57 - 40 = ?$

Card Sort: At the Beach, Spanish, Spanish
O

$28 + ? = 32$

Card Sort: At the Beach, Spanish, Spanish
P

$40 + ? = 57$

Card Sort: At the Beach, Spanish, Spanish
Q

$32 + 28 = ?$

Card Sort: At the Beach, Spanish, Spanish
R

$57 + 40 = ?$