Unidad 7, Lección 5

Algunos triángulos, todos los triángulos

Descubramos qué hace que una figura sea un triángulo.

Calentamiento

Cuáles tres van juntos: Más figuras

¿Cuáles 3 van juntas?

A

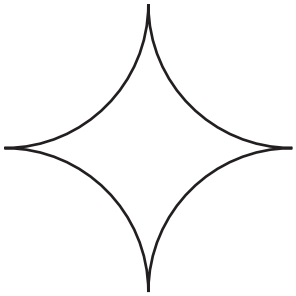

B

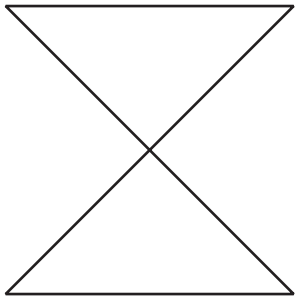

C

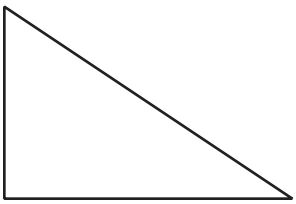

D

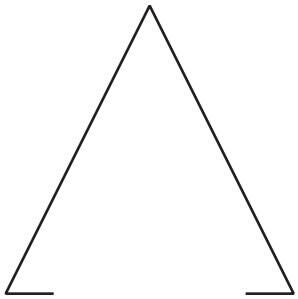

Actividad 1

Triángulos y no triángulos

1. Estos son triángulos.

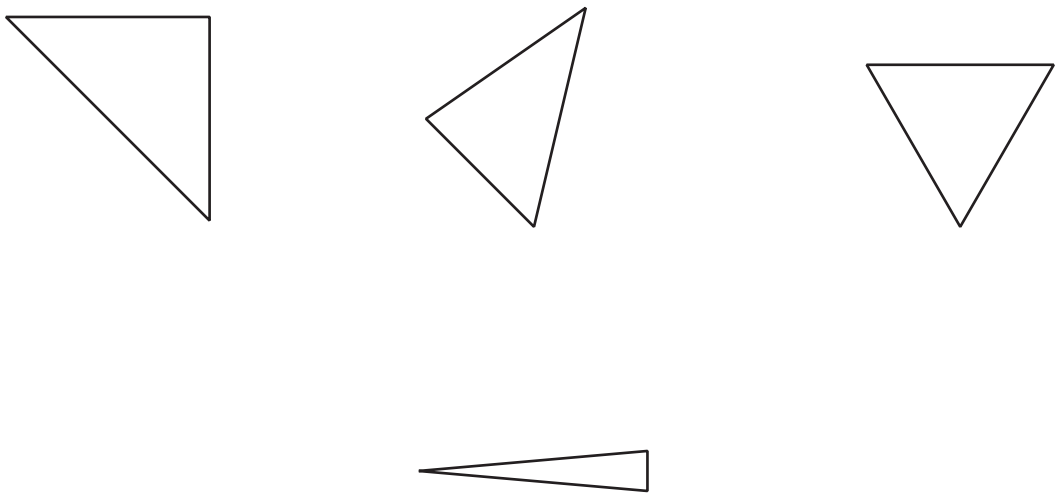

¿En qué se parecen todos estos triángulos?

2. Estos *no son* triángulos.

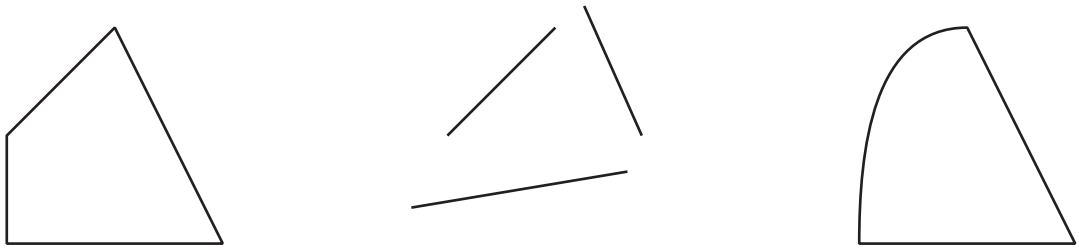

¿Qué hace que estas figuras sean diferentes a los triángulos?

Actividad 2

Dibujemos triángulos

1. Escoge 3 puntos. Une los puntos.



 CC BY NC 2024
Illustrative Mathematics®

2. Dibuja 3 triángulos diferentes.



3. Dibuja 3 figuras diferentes que *no* sean triángulos.



CC BY NC 2024
Illustrative Mathematics®

Actividad 3

Centros: Momento de escoger

Escoge un centro.

Bloques sólidos geométricos



¿En qué se parecen?



Compara

Contar colecciones



CC BY NC 2024
Illustrative Mathematics®