Unidad 5, Lección 2

Formemos y separemos diseños con fichas geométricas

Formemos y separemos diseños hechos con fichas geométricas.

CC BY NC 2024
Illustrative Mathematics®

Calentamiento

Cuáles tres van juntos: Diseños con fichas geométricas

¿Cuáles 3 van juntos?

A

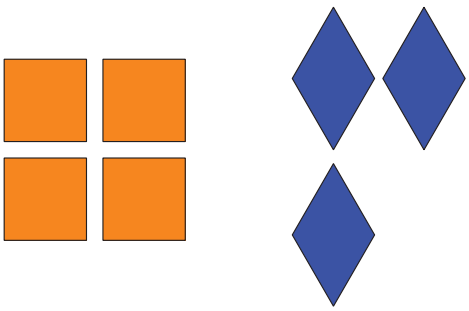

B



C

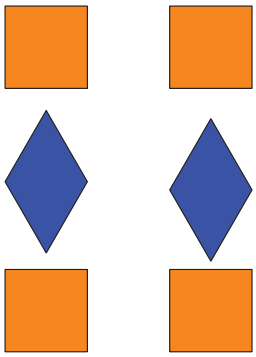

D

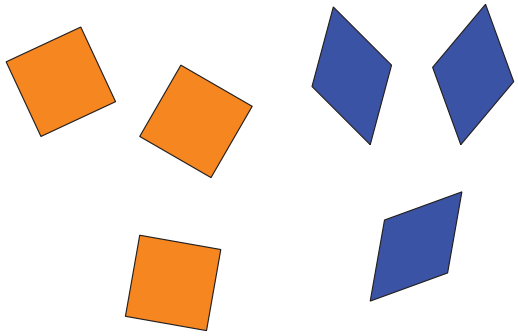

Actividad 1

Hagamos diseños con fichas geométricas

Mi diseño





Actividad 2

El diseño con fichas geométricas de Han

8 fichas geométricas

1.



Expresión: _____

2.

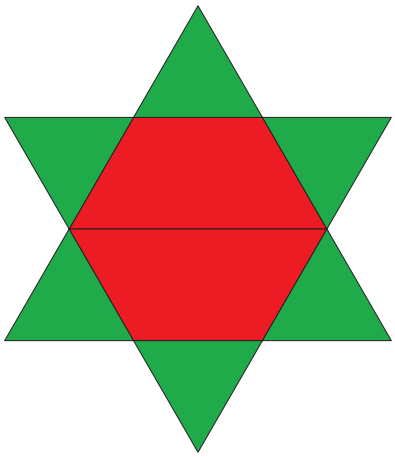

Expresión: _____

CC BY NC 2024
Illustrative Mathematics®

3.

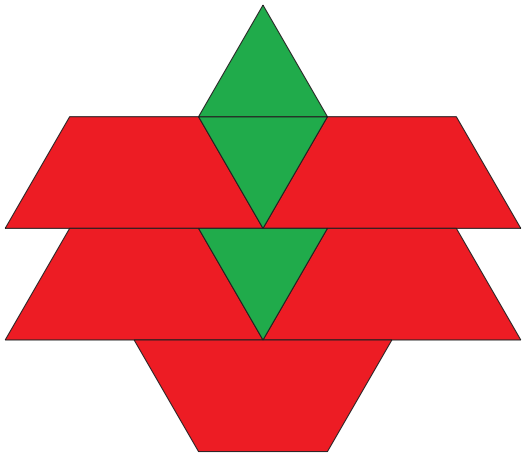

Expresión: _____

4.



Expresión: _____

Actividad 3

Centros: Momento de escoger

Escoge un centro.

Márcalo



Bingo

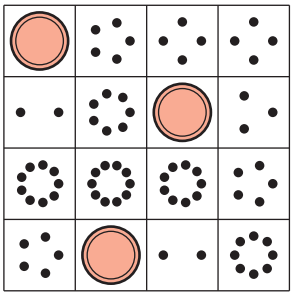

Encuentra el valor de expresiones

3+5 7-5

Revuelve y saca

